PHIẾU TƯ DUY MATHX – PHIẾU SỐ 33

Bài 1. Hoa có một số quả bóng có 3 màu khác nhau. Những quả bóng cùng màu thì có khối lượng bằng nhau. Khối lượng của mỗi quả bóng trắng là bao nhiêu?



(A) 3 kg (B) 4 kg (C) 5 kg (D) 6 kg (E) 7 kg

Bài 2. Sử dụng các chữ số 0, 1, 6, 8, 9 có thể tạo thành bao nhiêu số có 4 chữ số và lớn hơn 8888 (mỗi chữ số chỉ dùng một lần)?

Bài 3. Các hình lập phương giống nhau được ghép lại thành hình dưới đây. Có thể nhìn thấy ít nhất bao nhiêu mặt hình vuông nếu nhìn hình từ bên phải?

TRƯỜNG TOÁN ONLINE MATHX

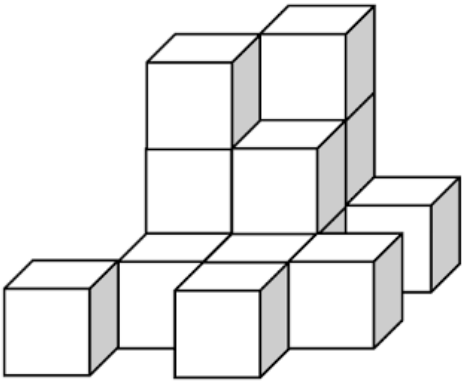

Bài 4. Tìm số thích hợp thay thế cho dấu "?" trong hình dưới đây, biết mỗi hình đều tuân theo một quy luật.

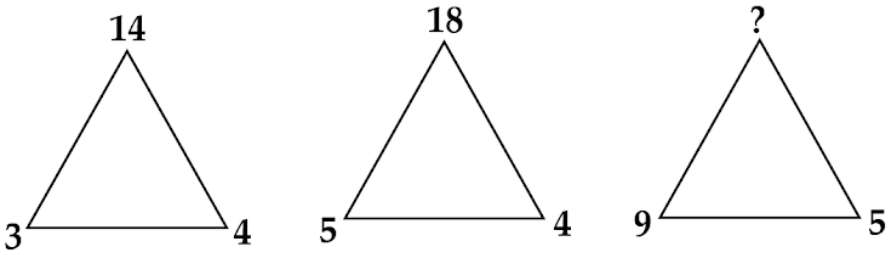

Bài 5. Minh viết các số 30 số tự nhiên từ 1 đến 30. Hỏi cần chọn ngẫu nhiên ít nhất bao nhiêu số tự nhiên để chắc chắn rằng có hai số có tổng là 20?

GIỚI THIỆU LỚP HỌC ONLINE CÙNG GIÁO VIÊN GIỎI

Trường Toán Online MATHX với các lớp Toán online trực tiếp với giáo viên giỏi. Lớp học dành cho học sinh từ CƠ BẢN đến NÂNG CAO phù hợp với trình độ của từng bạn (có kiểm tra xếp lớp). Sĩ số 8 - 12 học sinh/lớp giúp giáo viên và học sinh dễ dàng tương tác, giáo viên dễ dàng sát sao tình hình học tập của học sinh.

Phụ huynh học sinh đăng ký **LÀM BÀI KIỂM TRA XẾP LỚP MIỄN PHÍ** tại form: truongtoanmathx.vn/dangkykiemtra

Xem thông tin chi tiết: truongtoanmathx.vn

HOTLINE: 0867.162.019

TRƯỜNG TOÁN ONLINE MATHX